NOME: _____

TURMA: _____ DATA: ____/_____/_____

SosProfessorAtividades.com

BRASIL - DIVISÃO POLÍTICA

Você sabe o nome oficial do Brasil?
É República Federativa do Brasil.

O Brasil é um país muito extenso, possui 8.547.404 quilômetros quadrados de área.
É por meio do Censo **2022** que saberemos quantos somos, como somos e de que forma vivemos nas áreas urbanas e rurais do país", indica o IBGE. A estimativa do instituto é de que a população brasileira some em torno de 215 milhões de habitantes.

Nosso país tem 27 Unidades da Federação que são: 26 estados e 1 Distrito Federal. No Distrito Federal está Brasília, a capital do Brasil, sede do governo brasileiro.

Para facilitar a administração do Brasil, ele foi dividido em cinco regiões:

- Região Norte

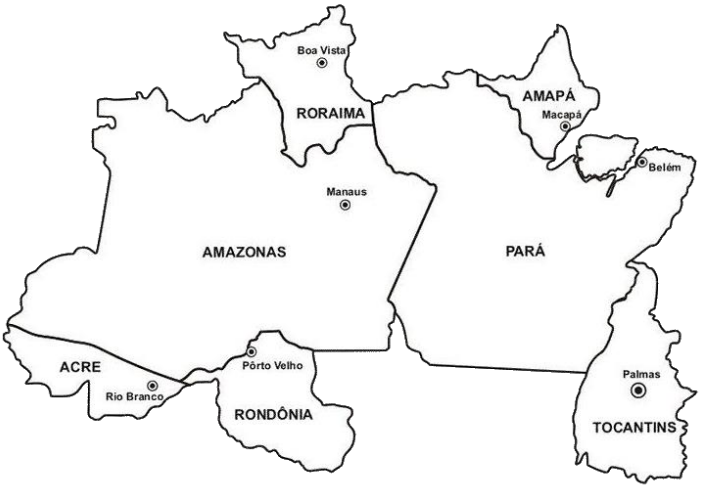



Estados	Siglas	Capitais
Acre	**AC**	Rio Branco
Amapá	**AP**	Macapá
Amazonas	**AM**	Manaus
Pará	**PA**	Belém
Rondônia	**RO**	Porto Velho
Roraima	**RR**	Boa vista
Tocantins	**TO**	Palmas

SosProfessorAtividades.com

Região Nordeste

Estados	Siglas	Capitais
Maranhão	**MA**	São Luís
Piauí	**PI**	Teresina
Ceará	**CE**	Fortaleza
Rio Grande do Norte	**RN**	Natal
Paraíba	**PB**	João Pessoa
Pernambuco	**PE**	Recife
Alagoas	**AL**	Maceió
Sergipe	**SE**	Aracaju
Bahia	**BA**	Salvador

Região Centro-Oeste

Estados	Siglas	Capitais
Mato Grosso	**MT**	Cuiabá
Mato Grosso do Sul	**MS**	Campo Grande
Goiás	**GO**	Goiânia

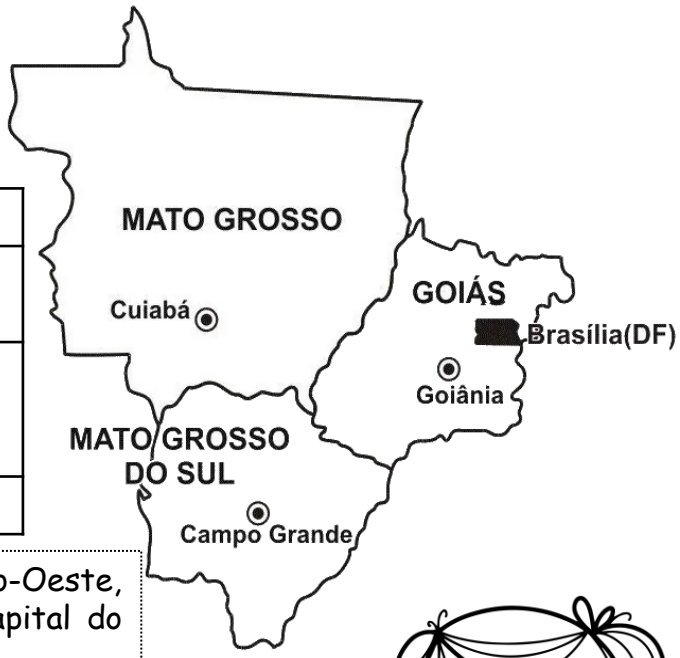

O Distrito Federal fica na Região Centro-Oeste, nele está localizada Brasília que é a capital do Brasil.

Região Sudeste

Estados	Siglas	Capitais
Minas Gerais	**MG**	Belo Horizonte
Espírito Santo	**ES**	Vitória
Rio de Janeiro	**RJ**	Rio de Janeiro
São Paulo	**SP**	São Paulo

SosProfessorAtividades.com

- Região Sul



Estados	Siglas	Capitais
Paraná	**PR**	Curitiba
Santa Catarina	**SC**	Florianópolis
Rio Grande do Sul	**RS**	Porto Alegre

1- Quantas Unidades da Federação formam o Brasil?

_____

2- Por que o Brasil foi dividido em cinco regiões?

_____

3- Observe o mapa do Brasil (que o professor colocou na sala) e responda.

a) Quais são os cinco estados brasileiros maiores em extensão?

_____

_____

b) Nosso litoral é banhado por qual oceano?

_____

c) Marque com X os estados brasileiros que não são banhados pelo oceano.

( ) Piauí ( ) Roraima ( ) Amazonas
( ) Acre ( ) Bahia ( ) Rondônia
( ) Mato Grosso ( ) Mato Grosso do Sul ( ) Ceará
( ) São Paulo ( ) Tocantins ( ) Alagoas
( ) Goiás ( ) Minas Gerais ( ) Amapá

SosProfessorAtividades.com

4- Pinte os estados que formam as regiões brasileira de acordo com a legenda.

Região Norte
Região Nordeste
Região Centro-Oeste
Região Sudeste
Região Sul

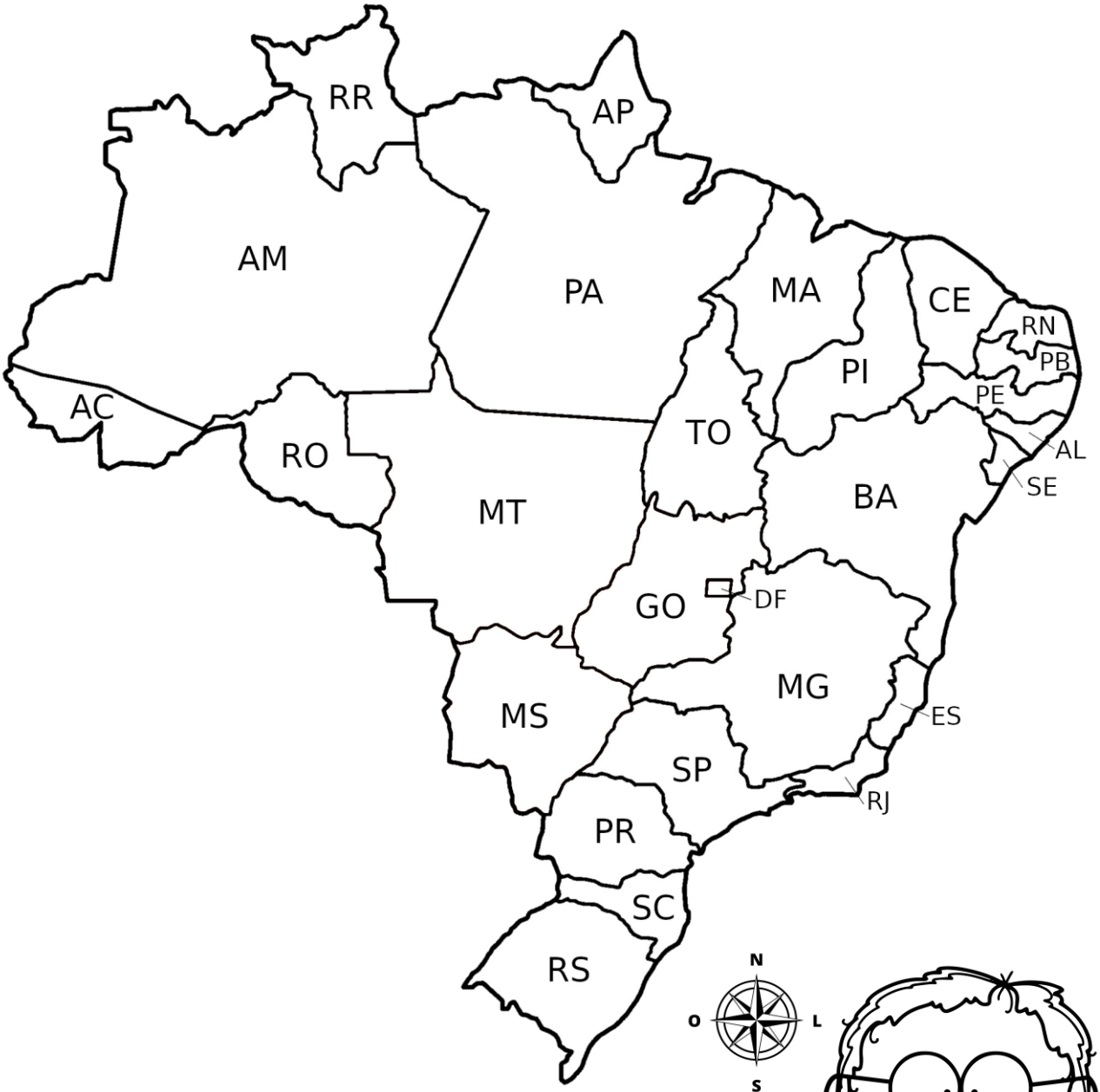



5- Quais regiões têm:

a) mais estados? _____

b) menos estados? _____

6- Em qual região do Brasil você mora?

_____

SosProfessorAtividades.com

4- Pinte os estados que formam as regiões brasileira de acordo com a legenda.

◯ Região Norte (amarelo) ◯ Região Nordeste (verde)
◯ Região Centro-Oeste (vermelho) ◯ Região Sudeste (roxo) ◯ Região Sul (marrom)

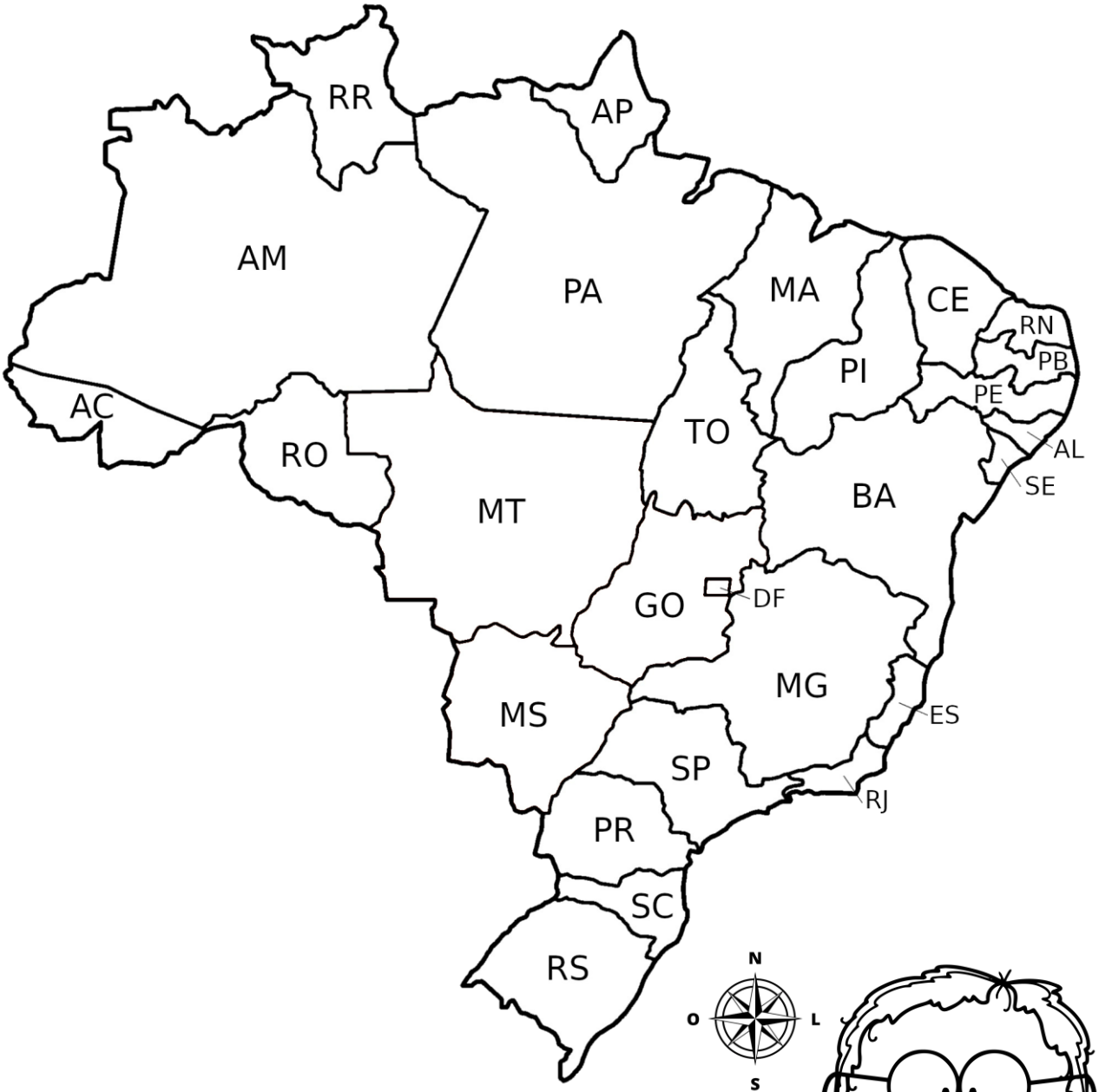



5- Quais regiões têm:

a) mais estados? _____

b) menos estados? _____

6- Em qual região do Brasil você mora?

_____

▪ Região Sul



Estados	Siglas	Capitais
Paraná	**PR**	Curitiba
Santa Catarina	**SC**	Florianópolis
Rio Grande do Sul	**RS**	Porto Alegre

1- Quantas Unidades da Federação formam o Brasil?

São 27 Unidades da Federação: sendo 26 estados e 1 Distrito Federal.

2- Por que o Brasil foi dividido em cinco regiões?

Para facilitar a sua administração.

3- Observe o mapa do Brasil (que o professor colocou na sala) e responda.

a) Quais são os cinco estados brasileiros maiores em extensão?

São: Amazonas, Pará, Mato Grosso, Bahia e Minas Gerais.

b) Nosso litoral é banhado por qual oceano?

Pelo oceano Atlântico.

c) Marque com X os estados brasileiros que não são banhados pelo oceano.

( ) Piauí (x) Roraima (x) Amazonas
(x) Acre ( ) Bahia (x) Rondônia
(x) Mato Grosso (x) Mato Grosso do Sul ( ) Ceará
( ) São Paulo (x) Tocantins ( ) Alagoas
(x) Goiás (x) Minas Gerais ( ) Amapá

SosProfessorAtividades.com

4- Pinte os estados que formam as regiões brasileira de acordo com a legenda.

Região Norte
Região Nordeste
Região Centro-Oeste
Região Sudeste
Região Sul

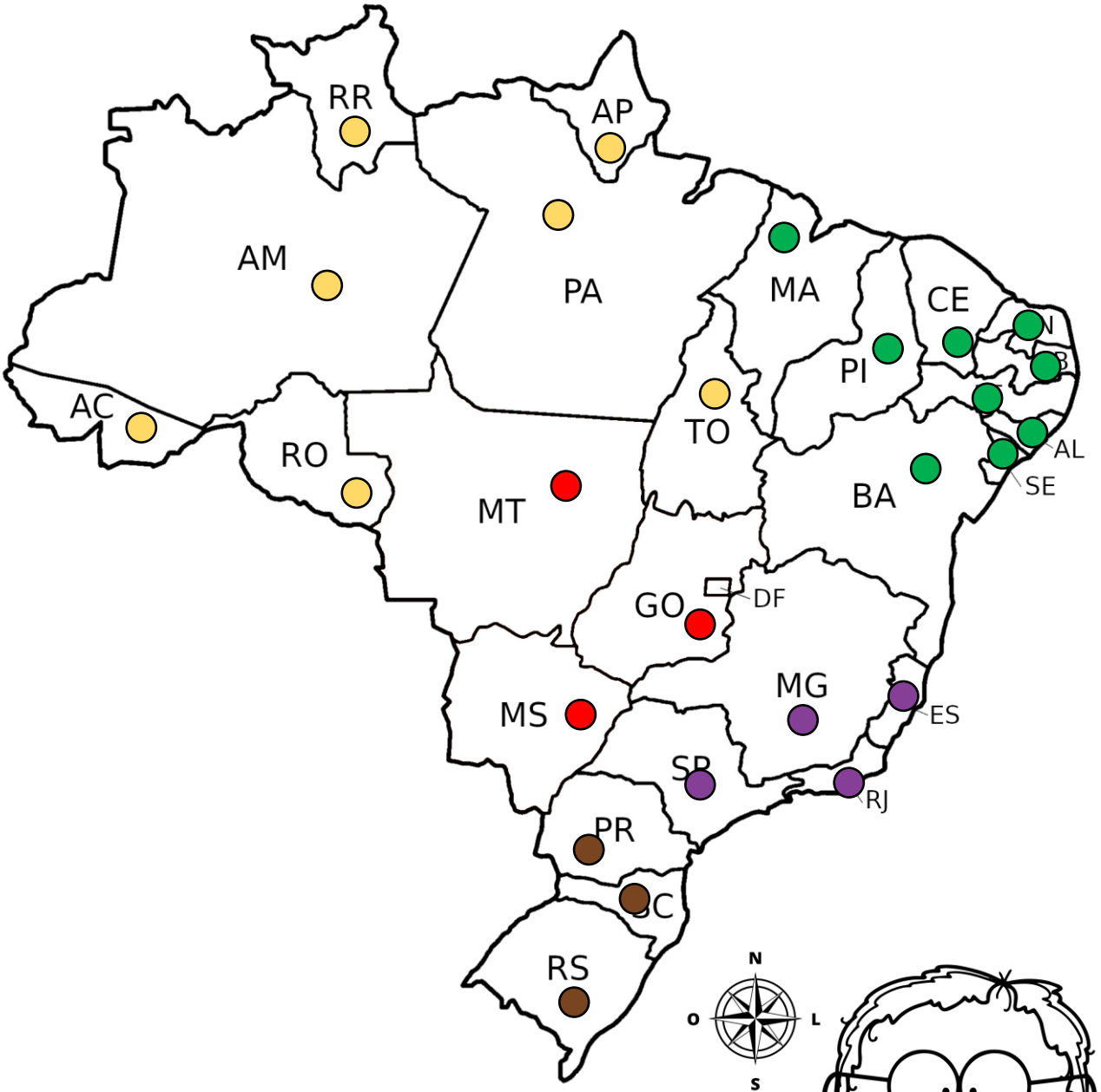

5- Quais regiões têm:

a) mais estados? Região Nordeste

b) menos estados? Região Centro-Oeste e Região Sul.

6- Em qual região do Brasil você mora?

Pessoal.

SosProfessorAtividades.com

Visite nossas redes sociais

SOS PROFESSOR ATIVIDADES por Betânia Maximiano

https://sosprofessoratividades.com

https://br.pinterest.com/betasobeta/sosprofessoratividades/

https://www.facebook.com/sosprofessoratividades/

https://www.instagram.com/sosprofessoratividades/

Nosso canal no YOUTUBE

https://www.youtube.com/channel/UCxN9wo1jE1txew9bzd_O58A?view_as=subscriber

Produção: sosprofessoratividades.com

Todos os direitos reservados ao sosprofessoratividades.com. É proibido distribuir, reproduzir ou vender este material por qualquer meio, seja eletronicamente ou impresso, bem como reivindicá-lo como seu e tentar modificar ou remover avisos de direitos autorais, logotipos ou marcas d'água, uma vez que é protegido por direitos autorais. O não cumprimento é uma violação da Lei de Direitos Autorais e pode ter consequências legais. Lei dos direitos autorais, nº 9.610/98

Cliparts que utilizo: